QUESTIONNAIRE DE VALIDATION D'UN NIVEAU DEPARTEMENTAL EN C.O

NOM PRENOM : **ETABLISSEMENT :**

1.Entoure le symbole qui représente l'arrivée d'une course d'orientation sur la carte? *(0,5 point)*



2.Sur une carte au 1/5000ème, deux bâtiments sont distants de 3 cm. .Combien de distance cela représente-il sur le terrain ? *(1point)*

3.Quelle direction indique l'aiguille rouge d'une boussole ? Entoure la bonne réponse. *(1 point)*

SUD EST NORD OUEST

4.Sur la carte d'orientation, quelle est la couleur utilisée pour représenter un champ? *(0.5 point)*

_

5.Donne la direction cardinale indiquée par la flèche. *(1 point)*

- Sud Ouest
- Sud
- Nord
- Nord Ouest
- Est
- Sud Est
- Nord Est

6. Sur une carte d'orientation, comment sont représentés les éléments suivants: Dessine l'élément et indique sa couleur. (*2 points*)

ELEMENT	DESSIN	COULEUR
UNE BUTTE		
UN FALAISE		
UN TALUS		
UNE DEPRESSION		

7.Indique quel est le meilleur itinéraire (en pointillé rose) pour aller du poste 3 au poste 4. Réfléchis bien…*(1 point)*

❑ Itinéraire A ❑ Itinéraire B ❑ Itinéraire C	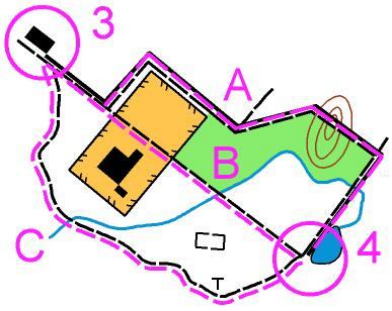

8.Cite ou dessine 4 symboles de couleur noire *(2 points)*

9.Donne la définition de ce symbole : *(0,5 point)*

✕	❑ Particularité due à l'homme ❑ Particularité de végétation

10.La définition du poste est ARBRE ISOLE, indique quel numéro de poste il s'agit : *(0,5 point)*

ARBRE ISOLE ❑ Poste 1 ❑ Poste 2 ❑ Poste3	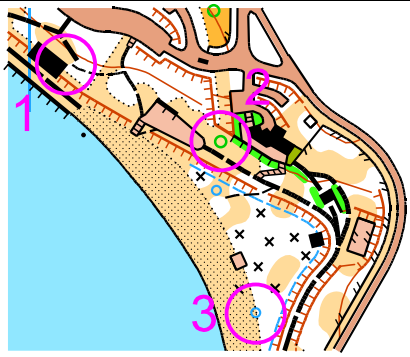

11.Donne la définition de ce symbole : *(0,5 point)*

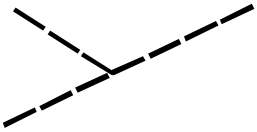	❑ jonction chemin jonction rivière

12.Comment appelle–t-on le nord indiqué par l'aiguille de la boussole ? *(0,5point)*

- Le nord géographique
- Le nord magnétique
- Le pôle nord

13.Donne les définitions des postes suivants *:* *(1 point)*

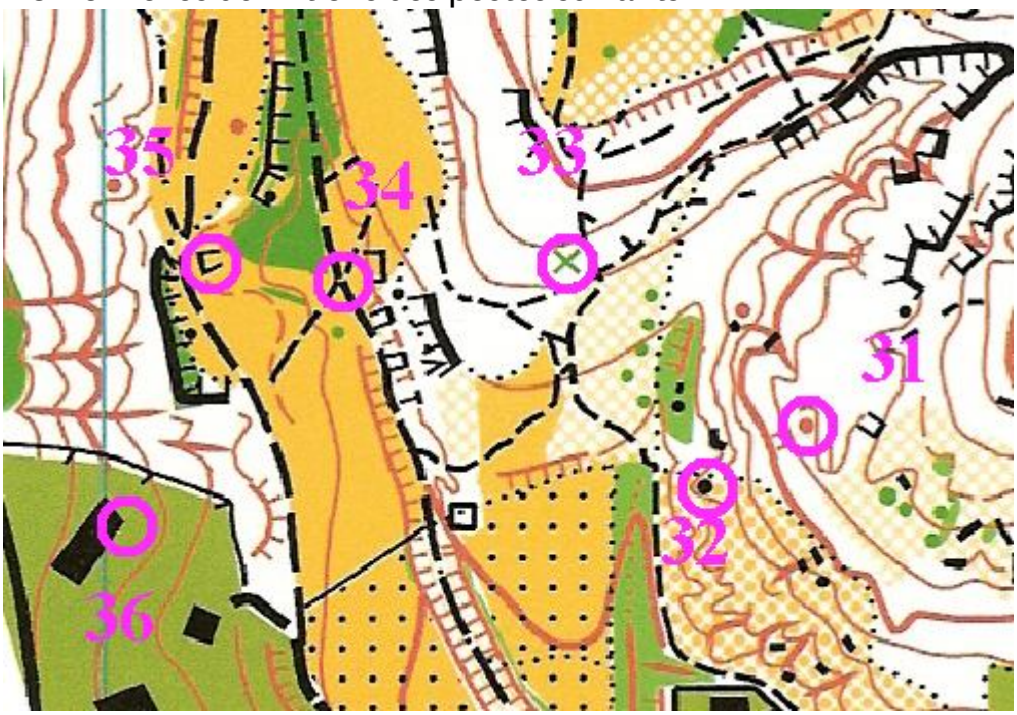

31 32 : 33 :

34 : 35 : 36 :

14.Quel plan correspond au paysage? Indiquez votre réponse en entourant la lettre correspondante. *(1 point)*

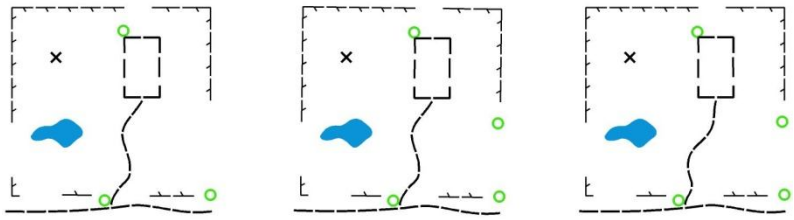

A B C

15.Peux-tu traverser cette zone ? *(0.5 point)*

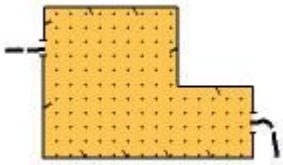	❑ oui ❑ non

16. En allant du départ à l'arrivée, tu croises différents éléments à droite et à gauche du chemin. Suivant que ces éléments se situent à gauche ou à droite du chemin, classes les dans la bonne colonne et donnes leur définition *(3,5points)*

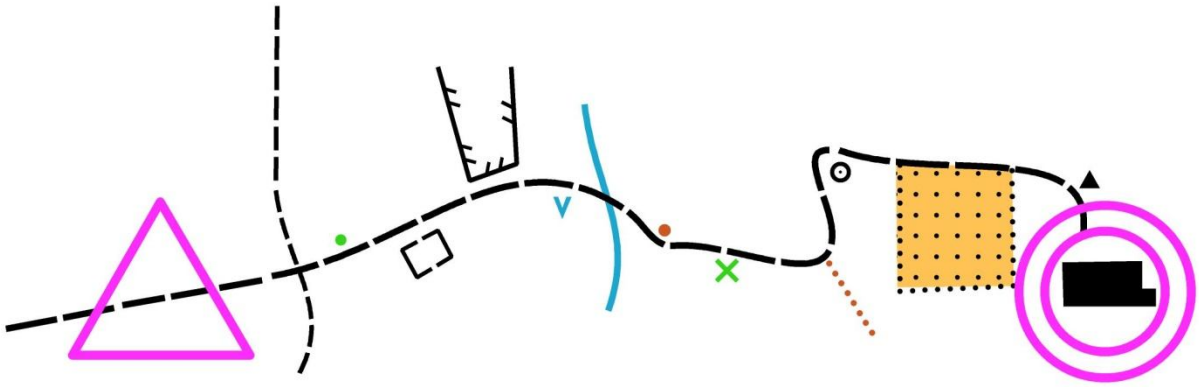

DEFINITIONS ELEMENTS A GAUCHE	DEFINITIONS ELEMENTS A DROITE

17. Pour des raisons de sécurité, chaque concurrent doit partir avec une montre et une boussole, à ton avis pourquoi? *(1 point)*

18.Indique quel est le meilleur itinéraire (en pointillé rose) pour aller du poste 14 au poste 15 *(1 point.)*

❑ Itinéraire A ❑ Itinéraire B ❑ Itinéraire C ❑ Itinéraire D	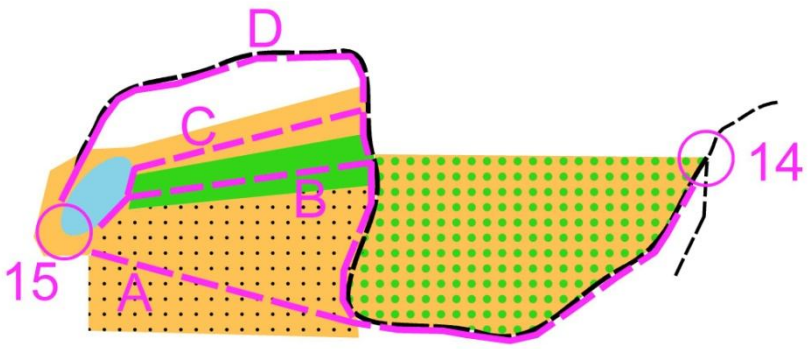

Justifie ton choix

19.Au championnat d'académie, est-ce qu'une équipe peut compter uniquement des garçons? *(0.5 point)*

20.Comment sont constituées les équipes UNSS ?(*0,5 point*)

(nombre d'élèves)

RESULTATS : **/ 20**